SIID255

Summative 3

(GI KUB & Reproductive system)

SI133

Rearranged by SI134

Lab Clink 30 Questions 90s / 1 question

SIID 255 SUMMATIVE 1

SI 133

Region GI, KUB

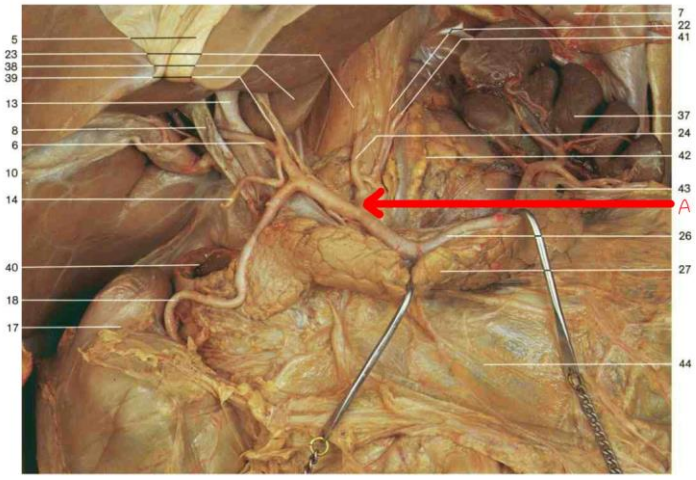

1. จงบอก Branch ทั้งหมดของ Structure ที่ชี้

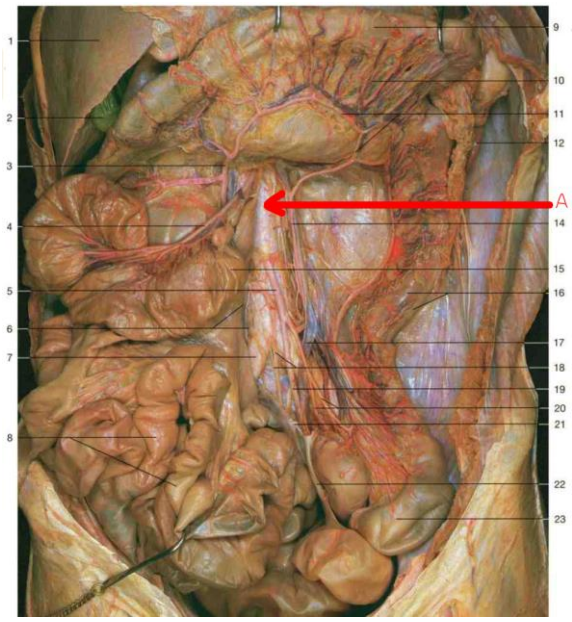

2. จงบอก musculoskeletal branch ของ Structure มา 3 ชื่อ

3. A. บอกชื่อส่วน และชื่อของโครงสร้างที่ชี้

   B. บอก ligament ที่เกี่ยวกับ

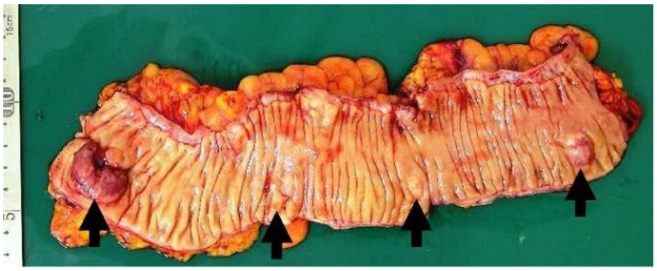

4. A. Specimen หมายเลขใดคือลำไส้ใหญ่

   B. ระบุเหตุผลสนับสนุน 3 ข้อ

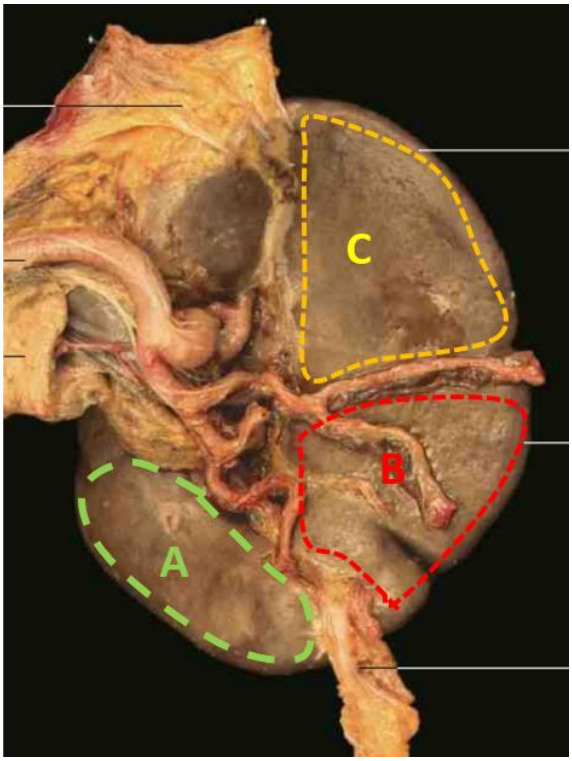

5. บริเวณต่าง ๆ ของโครงสร้างข้างต้นสัมพันธ์กับอวัยวะอะไร

6. A. Structure ที่ชี้คือ

   B. บอกหลอดเลือดที่มา supply

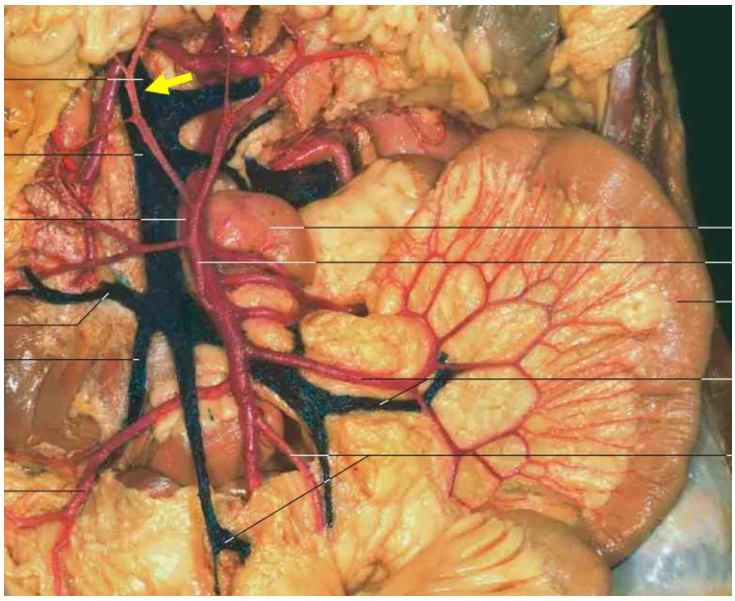

7. หากเส้นเลือดนี้อุดตัน จะเกิด collateral circulation ทำให้หลอดเลือดใดขยายบ้าง เลือกตอบ 1 คู่

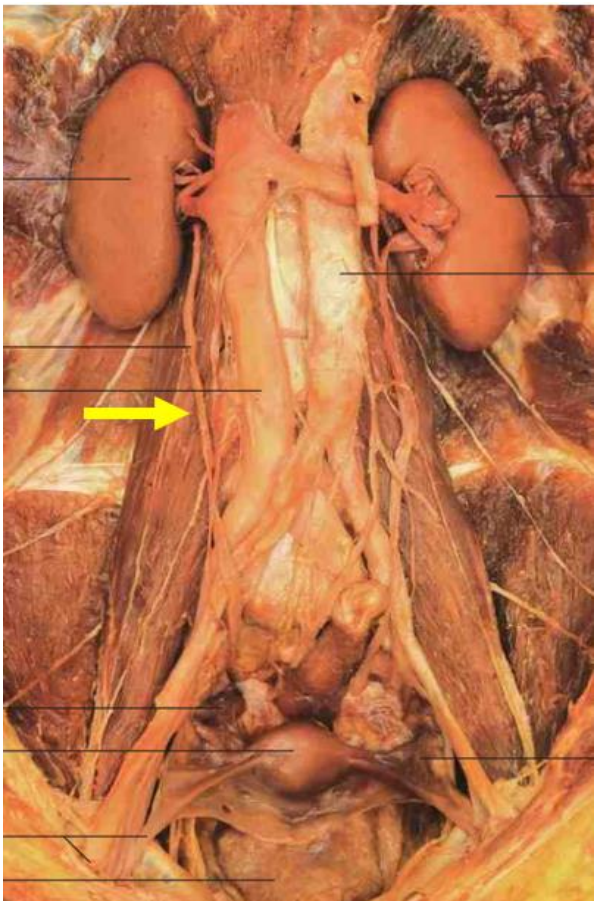

8. A. บอก constriction ทั้งหมดของโครงสร้างนี้

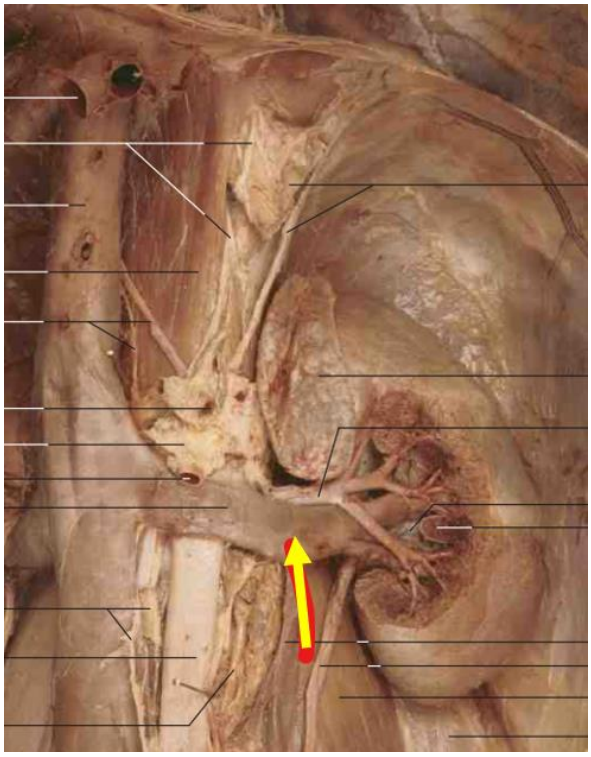

9. A. Structure ที่ชี้คือ

   B. บอก tributaries ทั้งหมดของ Structure ดังกล่าว

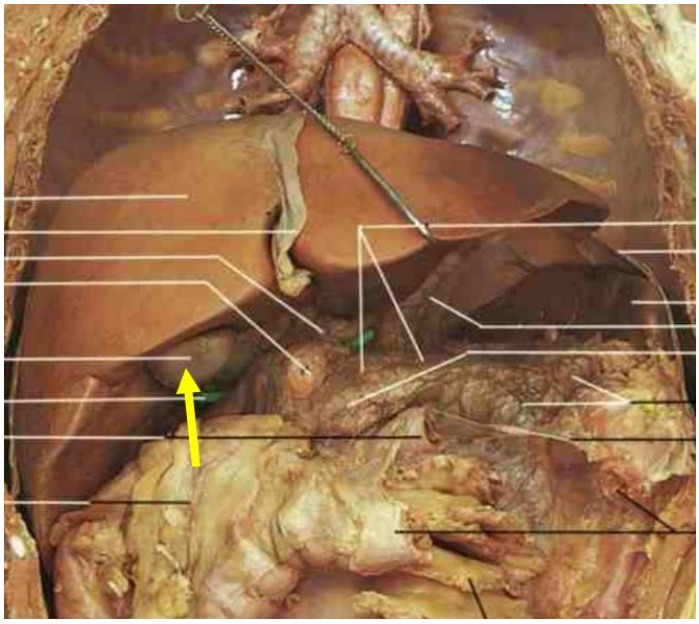

10. A. บอกชื่อ และส่วนของ Structure ที่ปัก

    B. บอกตำแหน่งที่คลำ Structure ดังกล่าว

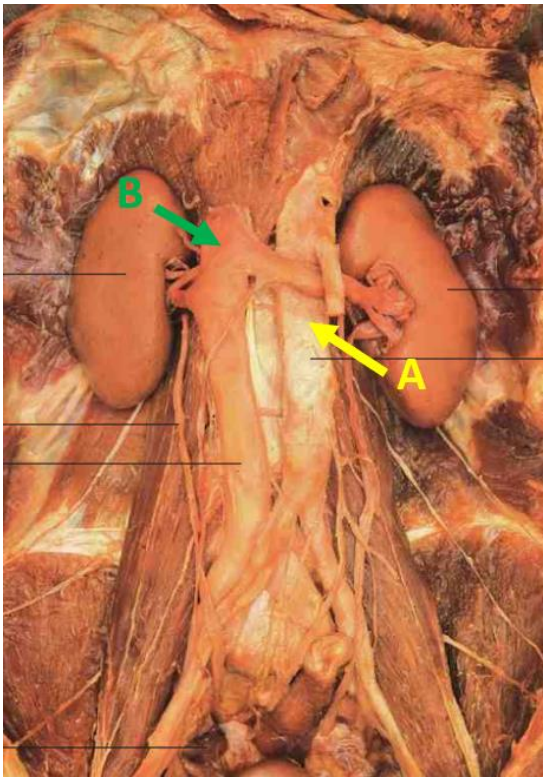

11. A. Structure A คืออะไร และวิ่งผ่าน Diaphragm ตรงกับ vertebra ระดับไหน

    B. Structure B คืออะไร และวิ่งผ่าน Diaphragm ตรงกับ vertebra ระดับไหน

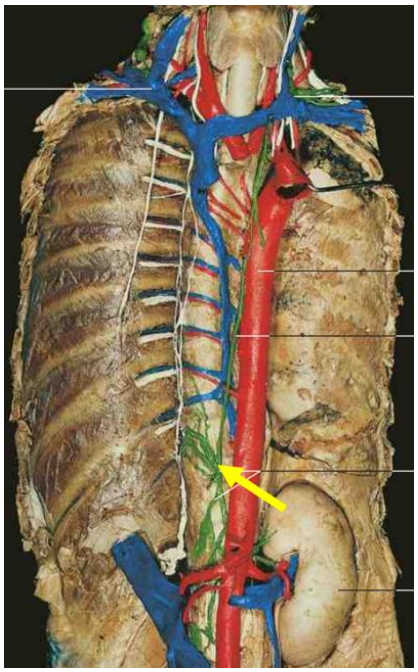

12. A. Structure ที่ชี้คืออะไร

    B. บอกตำแหน่งของ Structure ดังกล่าว

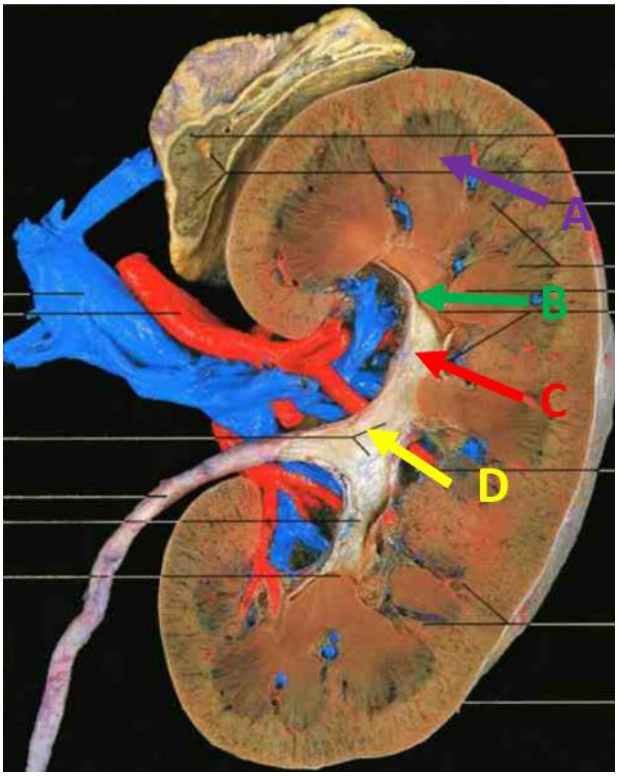

13. จงบอก Structure ทั้งหมดที่ชี้

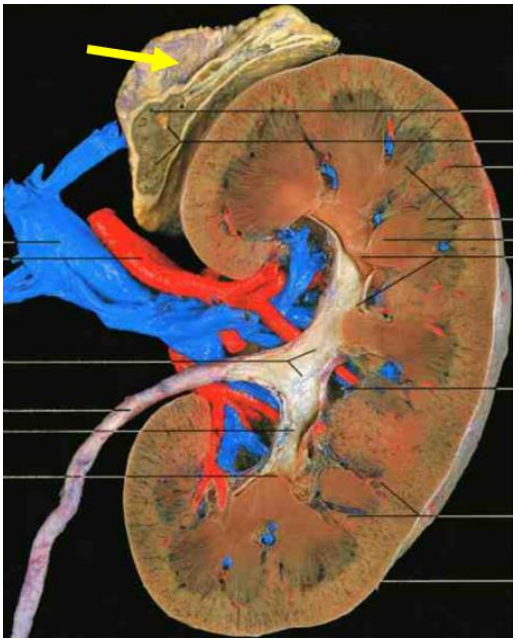

14. A. บอกชื่อ Structure ดังกล่าว

B. บอก arterial supply

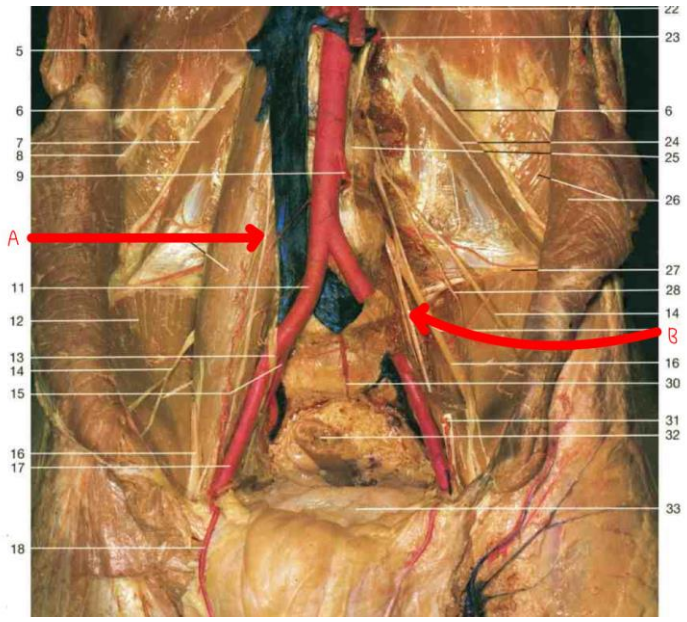

15. A: จงบอกชื่อ nerve A

    B: จงบอกชื่อ nerve B

Region CVS & RS

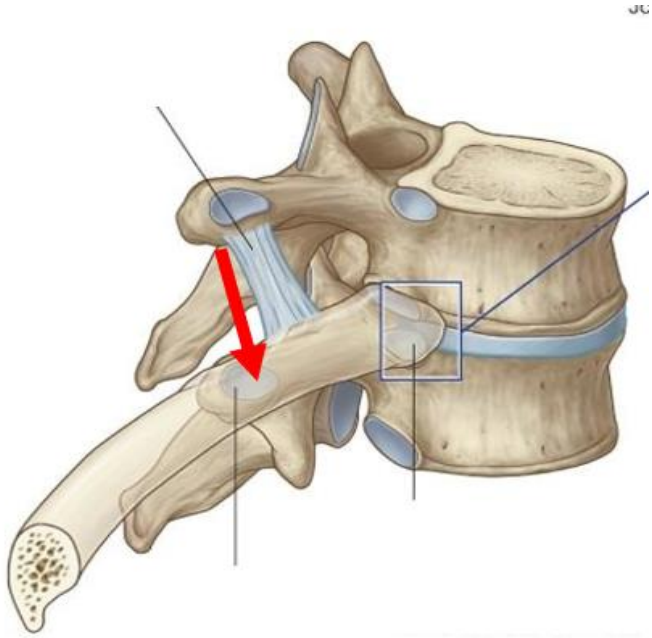

16. A. ชื่อข้อต่อคืออะไร

    B. บอก ligament ที่มาสัมพันธ์

Lab Clink 30 Questions 90s / 1 question

SIID 255 SUMMATIVE 2

SI 133

Region Perineum

1.

1.1 กล้ามเนื้อที่ชี้ชื่อว่าอะไร

1.2 กล้ามเนื้อดังกล่าวเป็น wall ด้านไหนของ ischiorectal fossa

2.

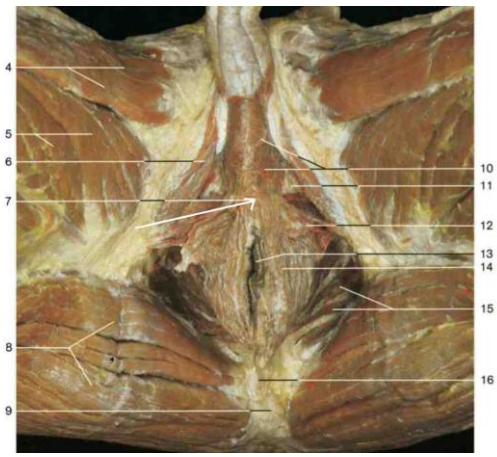

2.1 Structure ที่ชี้คืออะไร

2.2 จงเขียนชื่อ muscle ทั้งหมดที่เกาะ structure นี้

3.

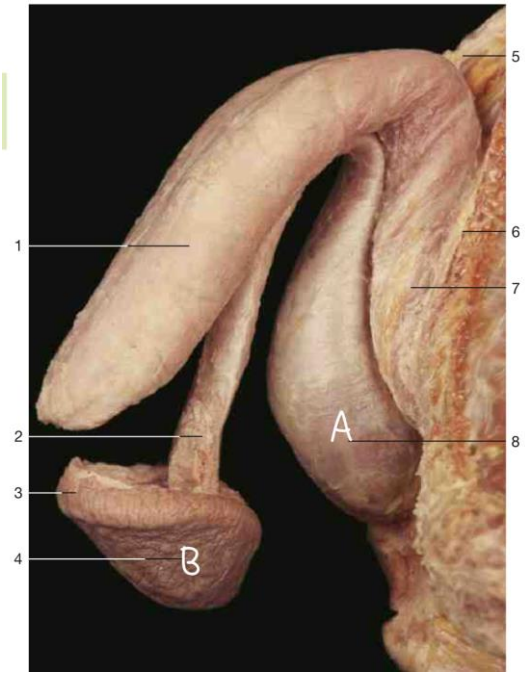

3.1 Structure A เทียบได้กับ Structure ใดในผู้หญิง

3.2 Structure B เทียบได้กับ Structure ใดในผู้หญิง

4.

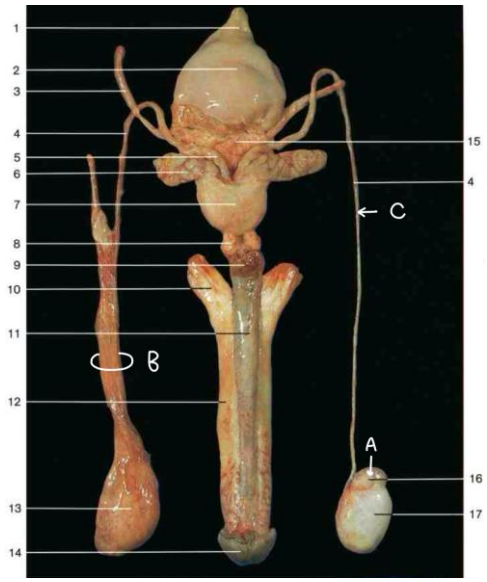

4.1 Structure A คืออะไร

4.2 Structure B คืออะไร

4.3 Structure C คืออะไร

5.

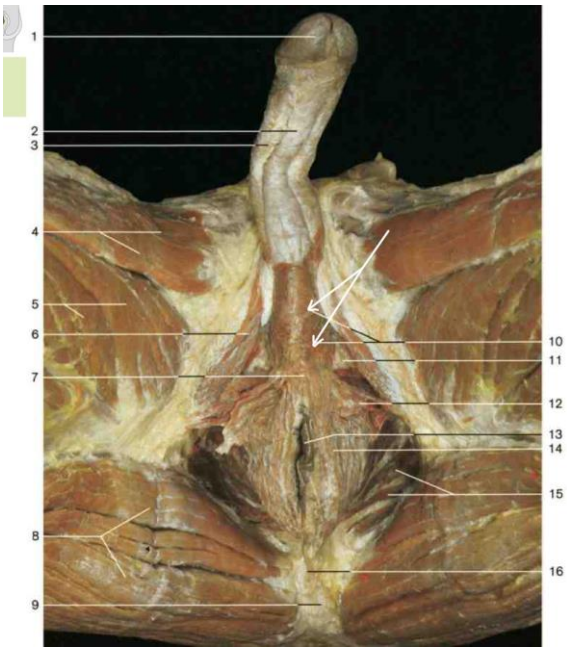

5.1 กล้ามเนื้อที่ชี้ชื่ออะไร

5.2 บอกหน้าที่ของกล้ามเนื้อนี้มา 1 อย่าง

6.

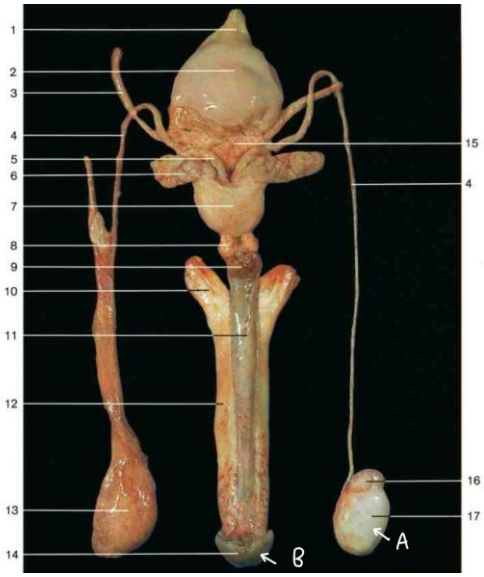

6.1 จงบอก lymphatic drainage ของ structure A

6.2 จงบอก lymphatic drainage ของ structure B

7.

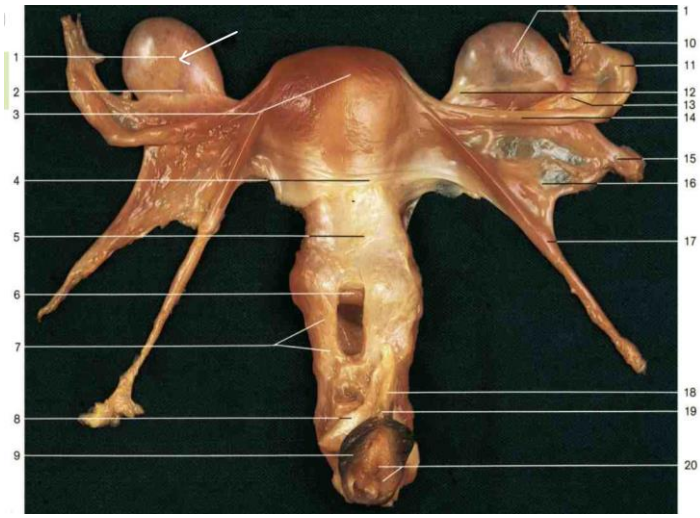

7.1 Structure ที่ชี้คืออะไร

7.2 จงบอกชื่อ structure ที่ช่วยยึด Structure ที่ชี้

8.

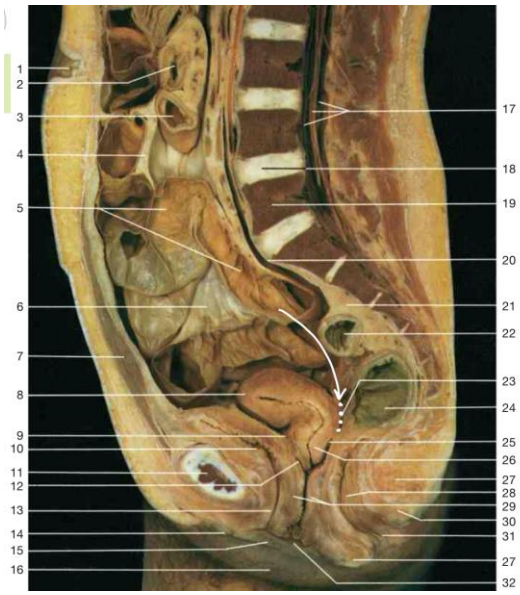

8.1 Structure ที่ชี้คืออะไร

8.2 Structure นี้มีความสำคัญทางคลินิกอย่างไร

9.

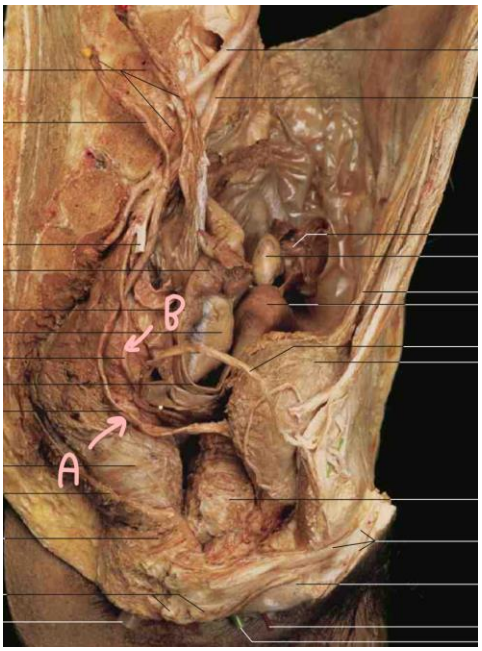

9.1 Structure A คืออะไร

9.2 Structure B คืออะไร

9.3 ทั้งสอง Structure สัมพันธ์กันอย่างไร

10.

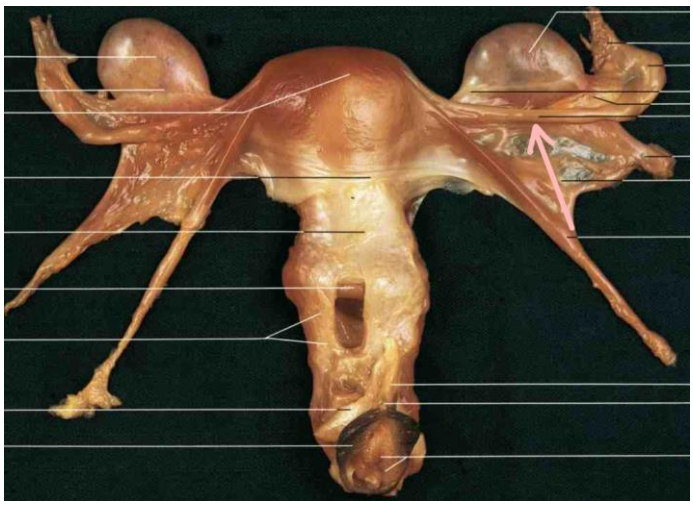

10.1 Structure ที่ชี้คืออะไร

10.2 จงบอก Part ทั้งหมดของ Structure นี้

11.

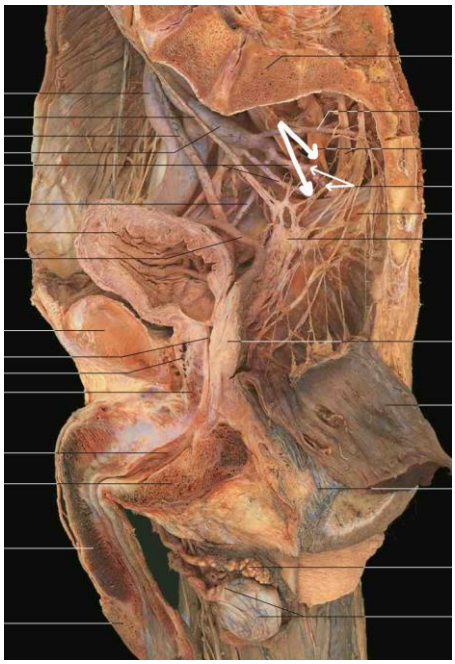

11.1 Structure ที่ชี้คืออะไร

11.2 ต้นกำเนิดของ Structure นี้คืออะไร

12.

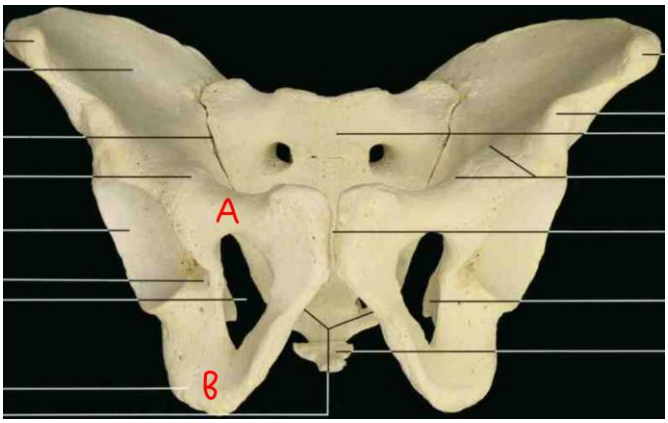

12.1 Structure A คืออะไร

12.2 Structure B คืออะไร

12.3 Structure ใช้รองรับน้ำหนักตอนนั่ง (A / B)

13.

13.1 ภาพ X - ray นี้เป็นของเพศใด

13.2 จงบอกเหตุผลที่ทำให้ทราบว่าเป็นเพศนั้น

14.

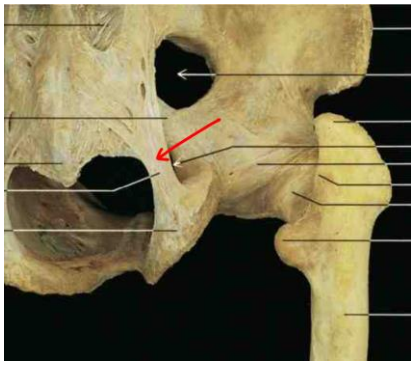

14.1 Structure ที่ชี้คืออะไร

14.2 Structure นี้มีความสำคัญทาง pelvic mechanism อย่างไร

15.

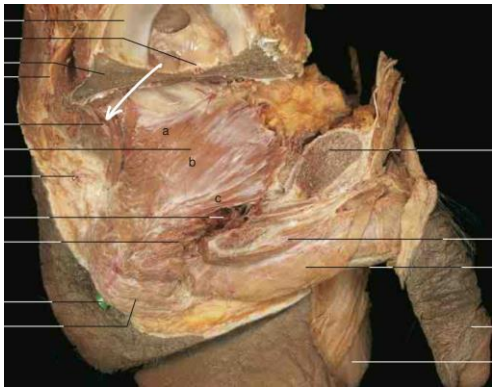

15.1 Structure ที่ชี้คืออะไร

15.2 จงบอกโครงสร้างที่สัมพันธ์ทาง posterior ของ structure นี้ มา 3 อย่าง